پاسخ آزمون موضوع ۴–فصل ۱ ریاضی ششم دبستان

۱-نادرست [۱۲]

۲- درست [۱۳]

۳-گزینه‌ی «۱» [۱۲]

۴-گزینه‌ی «۲» [۱۴]

۵-گزینه‌ی «۲» [۱۵]

۶-گزینه‌ی «۳» [۱۱] و [۱۳]

۷-۵ ساعت قبل از ظهر ← ۵−

ساعت ۱۲ ظهر ← ۰ (مبدأ) [۱۳]

۸-[۱۳] و [۱۴]

$-۶۰,-۳۰,+۳,+۱۵,+۲۹,+۷۸$

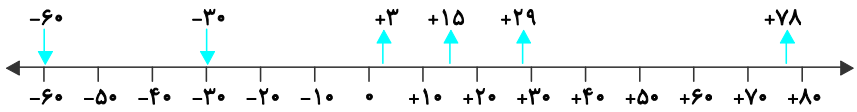

۹- [۱۵]

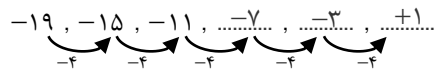

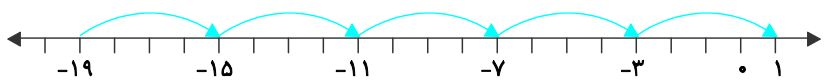

۱۰- [۱۵]

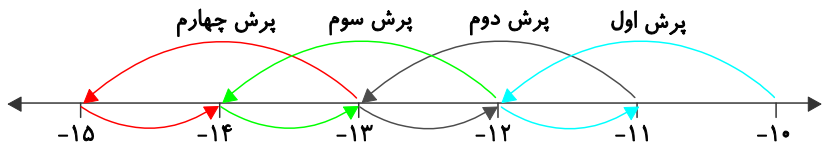

به عدد ۱۴− می‌رسد.

۱۱-قطر دایره‌ی س ۸ واحد است، پس نقطه‌ی س روی عدد ۴− قرار دارد و نقطه‌ی ش روی عدد ۱ قرار دارد.

حالا فاصله‌ی بین ۴− و ۱+ را شمارش کرده و عدد ۵ را به دست می‌آوریم پس بین س و ش ۵ واحد است. [۱۲] و [۱۳]

۱۲- روی محور از نقطه‌ی ۲+ به ۱− وصل کرده و واحدهای بین آن‌ها را می‌شماریم و به همان اندازه به سمت چپ حرکت می‌کنیم. نقطه‌ی به‌دست آمده قرینه‌ی نقطه‌ی ۲+ نسبت به نقطه‌ی ۱− است که برابر با نقطه‌ی ۴− است. [۱۳]

